# Los números ordinales

Aprende.

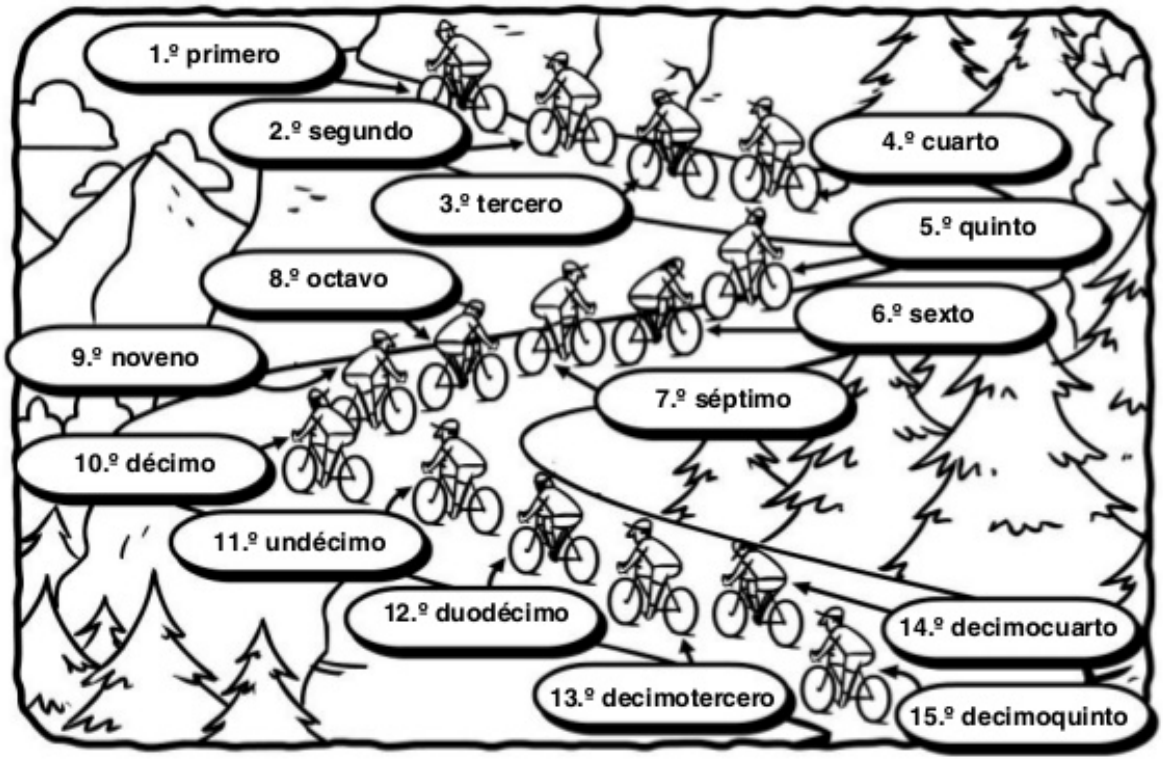


Los números ordinales nos indican el orden.

Rodea el primer día de la semana y tacha el séptimo.

| | | | |
|---|---|---|---|
| lunes | martes | miércoles | jueves |
| viernes | sábado | domingo | |

Resuelve.

Daniel es el duodécimo de la lista de su clase. Después, van Teresa y David. ¿Qué lugar ocupa cada uno?

Teresa → _____

David → _____

© GRUPO ANAYA, S.A., Me llevo tres 4, 5, 6. Educación Primaria. Material fotocopiable autorizado.

# Resuelve y colorea según el código.

55 = naranja  91 = marrón oscuro

97 = blanco  48 = marrón claro

72 = verde




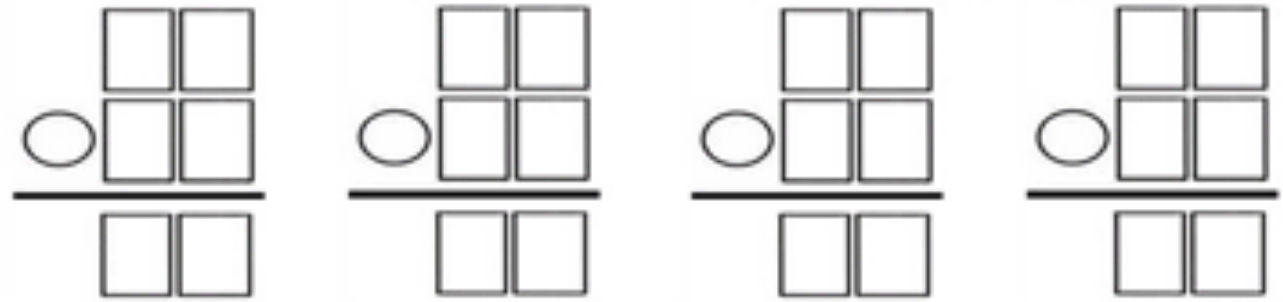

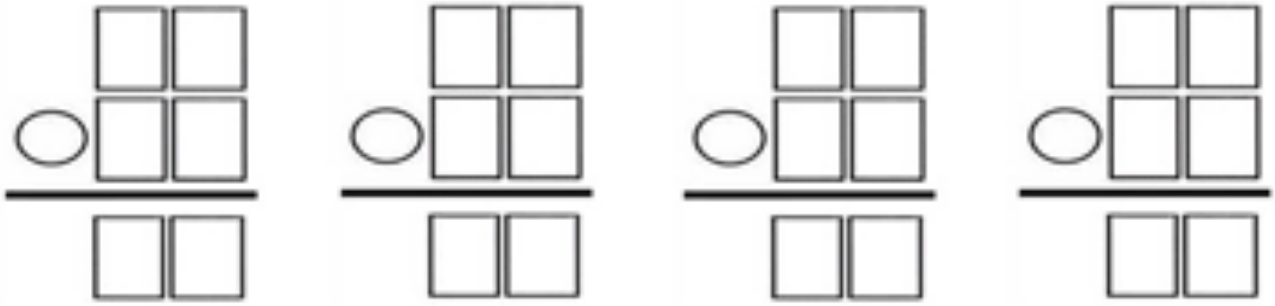

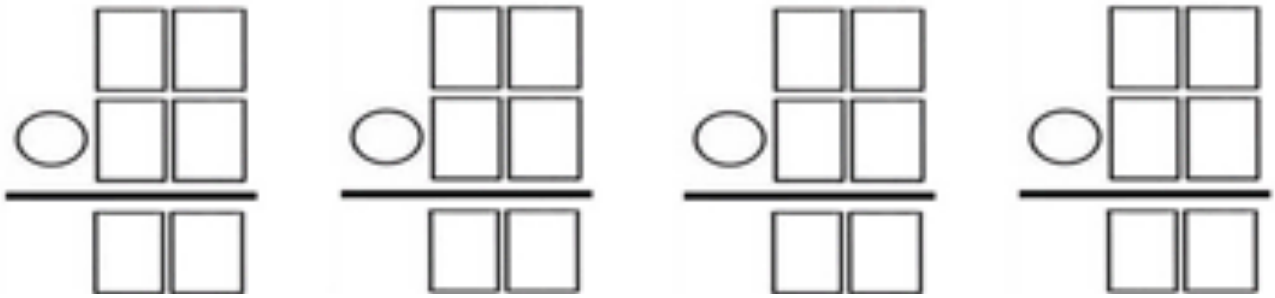

**Nombre:** _____ **Fecha:**_____

# Problemas de sumas hasta 100

En una maleta hay 26 bolas de goma y Blanca mete 35. ¿Cuántas hay ahora?

José Luis tiene 29 barras de plastilina y Carmen tiene 39. ¿Cuántas barras de plastilina tienen en total?

Cuántas pelotas tengo si en mi jarra de cristal tenía 60 y Pepe mete 26 más?

# Control

Nombre _____ Fecha _____

**1. ¿Qué hacen? Completa y escribe oraciones.**

| | |
|---|---|
| arregla un grifo. | pinta un cuadro. |
| cuida enfermos. | reparte el correo. |

La enfermera

El fontanero

El cartero

El pintor

**2. Fíjate y escribe qué hacen.**

Héctor

Sofía

Inés y Juan

© 2007 Santillana Educación, S. L.

**3. Relaciona.**

hombre

sombrero

bomba

humbre

**4. ¿Qué son? Escribe palabras con *mb.***

**5. Ahora, escribe una oración con cada una de las palabras anteriores.**

© 2007 Santillana Educación, S. L.